Ik kan cijferend optellen met deelantwoorden

Schrijf het zo op:

```
157
266 +
300
110
 13 +
.....
```

```
157
266 +
```

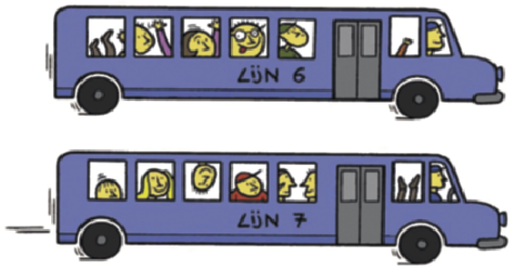

629	258	348	456	694
184 +	546 +	359 +	377 +	175 +

Boek 6a blok 2: Het museum



Ik kan het getal kiezen dat het dichtst bij ligt

2877	2500	3000	4389	3500	4500
2709	2500	3000	6459	5500	6500
3550	3500	4000	3190	2500	3500
1998	1500	2500	3501	3000	4000
2464	2000	2500	5499	5000	6000

Ik kan een staafdiagram invullen

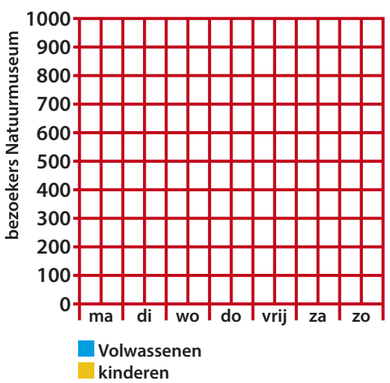

Dag:	kinderen:	Volwassenen:
maandag	700	1000
dinsdag	150	300
woensdag	900	900
donderdag	850	400
vrijdag	500	950
zaterdag	550	850
zondag	900	950

Ik kan de getallen in het schema zetten en in letters schrijven

Schrijf het getal op:
drieduizend honderdeen
vierduizend vijftien
zevenduizend tweehonderdtwaalf
negenduizend negenhonderd
veertienhonderdveertien

D	H	T	E

Schrijf het getal in woorden:
9542
3047
8015
2004
6305

Ik kan oppervlakte en omtrek berekenen

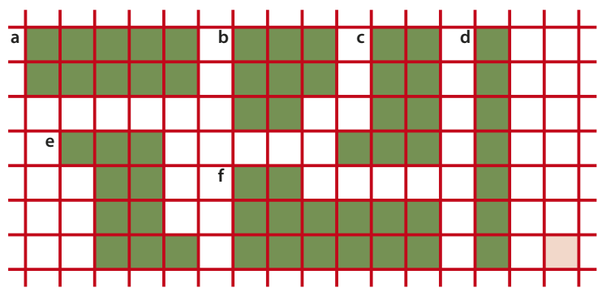

tuin	a	b	c	d	e	f
oppervlakte	..... m²	..... m²	..... m²	..... m²	..... m²	..... m²
omtrek	..... m	..... m	..... m	..... m	..... m	..... m